Secretaria Municipal de Educação EIEF Campina do Simão - PR

Campina do Simão - PR

EDUCAÇÃO INFANTIL IV

PROFESSORA:SALETE COLAÇO STEICHER (ESCOLA MUNICIPAL DO CAMPO VITAL BRASIL – MANHÃ)

DÉBORA COSTA (ESCOLA MUNICIPAL DO CAMPO VITAL BRASIL – TARDE)

MARILDA STOLARSKI (ESCOLA MUNICIPAL DO CAMPO VITAL BRASIL – TARDE)

DIANA AMADORI (ESCOLA MUNICIPAL DO CAMPO GALILEU GAIA – TARDE)

MARIA GISLAINE DE PAULA (ESCOLA MUNICIPAL DO CAMPO A REDENTORA – TARDE)

SANDRA DE ARAÚJO (ESCOLA MUNICIPAL DO CAMPO MARCILIANO ROCHA – MANHÃ)

Dia da semana	Data	Disciplina	Conteúdo	Carga horária	Objetivo	Referencias
Segunda-feira	19/10/2020		Hora atividade	04/h		

Terça-feira	20/10/2020	**CAMPO DE EXPERIÊNCIA: ESCUTA, FALA, PENSAMENTO E IMAGINAÇÃO**	Complete o alfabeto com as letras faltosas e pinte as vogais. Pinte as estrelas que contém somente letras.	04/h	Utilizar letras, números e desenhos em suas representações gráficas, progressivamente. **(EI03EF01)**	PPC
Quarta-feira	21/10/2020	**CAMPO DE EXPERIÊNCIA: ESPAÇOS, TEMPOS, QUANTIDADES, RELAÇÕES E TRANSFORMAÇÕES**	Complete conforme o que se pede. Escreva o numeral de acordo com a quantidade.	04/h	. **EI03ET04) Registrar observações, manipulações e medidas, usando múltiplas linguagens (desenho, registro por números ou escrita .**	
Quinta-feira	22/10/2020		Registrar o numeral de acordo com a quantidade, complete a sequência. Ligue os pontos.	04/h	● Reconhecer a sequência numérica até 9 ampliando essa possibilidade. **(EI03ET07)**	

Sexta-feira	23/10/2020	**CAMPO DE EXPERIÊNCIA: ESCUTA, FALA, PENSAMENTO E IMAGINAÇÃO**	Pinte os meios de transporte, recorte e cole no lugar correto.	04/h		

Segunda-feira	26/10/2020		Aulas Diversificadas. Hora atividade	04/h		
Terça-feira	27/10/2020		Recorte e monte o quebra-cabeça e cole na folha em branco.	04/h		
Quarta-feira	28/10/2020		Faça a adição dos conjuntos. Observar a imagem e completar a ficha com as informações solicitadas.	04/h	● Ordenar ilustração e corresponder com o texto. **(EI03EF03)** ● Estabelecer a relação de correspondência (termo a termo) entre a quantidade de objetos de dois conjuntos; **(EI03ET07)**	
Quinta-feira	29/10/2020		Recorte e cole as figuras conforme a letra inicial. Contar as figuras geométricas e pintar conforme a legenda.	04/h	Reconhecer e nomear as figuras geométricas planas: triângulo, círculo, quadrado, retângulo. **(EI03ET01)**	
Sexta-feira	30/10/2020		Pintar as vogais e as reescreva. Completar a sequência numérica.		●. Utiliza letras, números e desenhos em suas representações gráficas. **(EI03EF01)** . ● Reconhecer a sequência numérica até 9 ampliando essa possibilidade. **(EI03ET07)**	

ESCOLA: _____

PROFESSOR (A)_____

ALUNO (A)_____

ATIVIDADES REMOTAS QUINZENAL

REFERENTE AO 3º TRIMESTRE – 19/10/2020 À 30/10/2020

EDUCAÇÃO INFANTIL IV



COMPLETE O ALFABETO COM AS LETRAS FALTOSAS E PINTE AS VOGAIS:

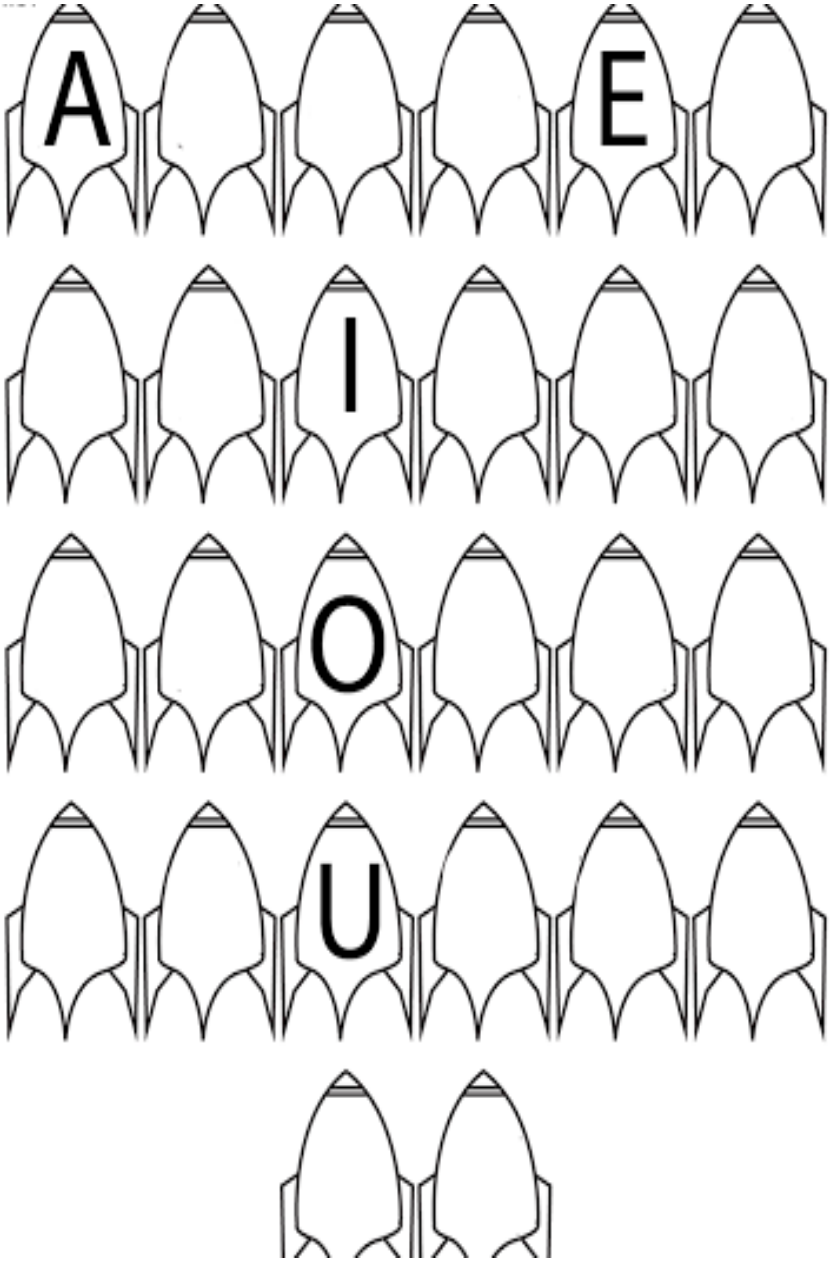

PINTAR SOMENTE AS ESTRELAS QUE CONTÉM LETRAS:

REGISTRE ABAIXO O QUE SE PEDE:

QUANTOS BALÕES?	VOANDO	PRESOS

CONTE E REGISTRE O NÚMERO DE ANIMAIS EM CADA QUADRO.



CONTANDO 1,2,3...

1- QUANTAS SEMENTES TEM CADA MELANCIA?



2- CONTINUE ESCREVENDO OS NUMERAIS.

1	___	___	___	5
___	2	___	4	___
1	___	3	___	___

LIGUE AS LETRAS DO ALFABETO E PINTE BEM BONITO O DESENHO QUE FORMOU.



PINTE OS MEIOS DE TRANSPORTE, RECORTE E COLE.

TRANSPORTE TERRESTRE	TRANSPORTE AÉREO	TRANSPORTE AQUÁTICO



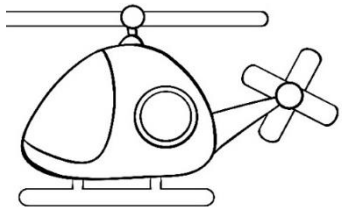


RECORTE E MONTE O QUEBRA- CABECA, E COLE NA FOLHA EM BRANCO.



ATIVIDADE DE MATEMÁTICA

FAÇA A ADIÇÃO DOS CONJUNTOS. EU JÁ COMECEI!

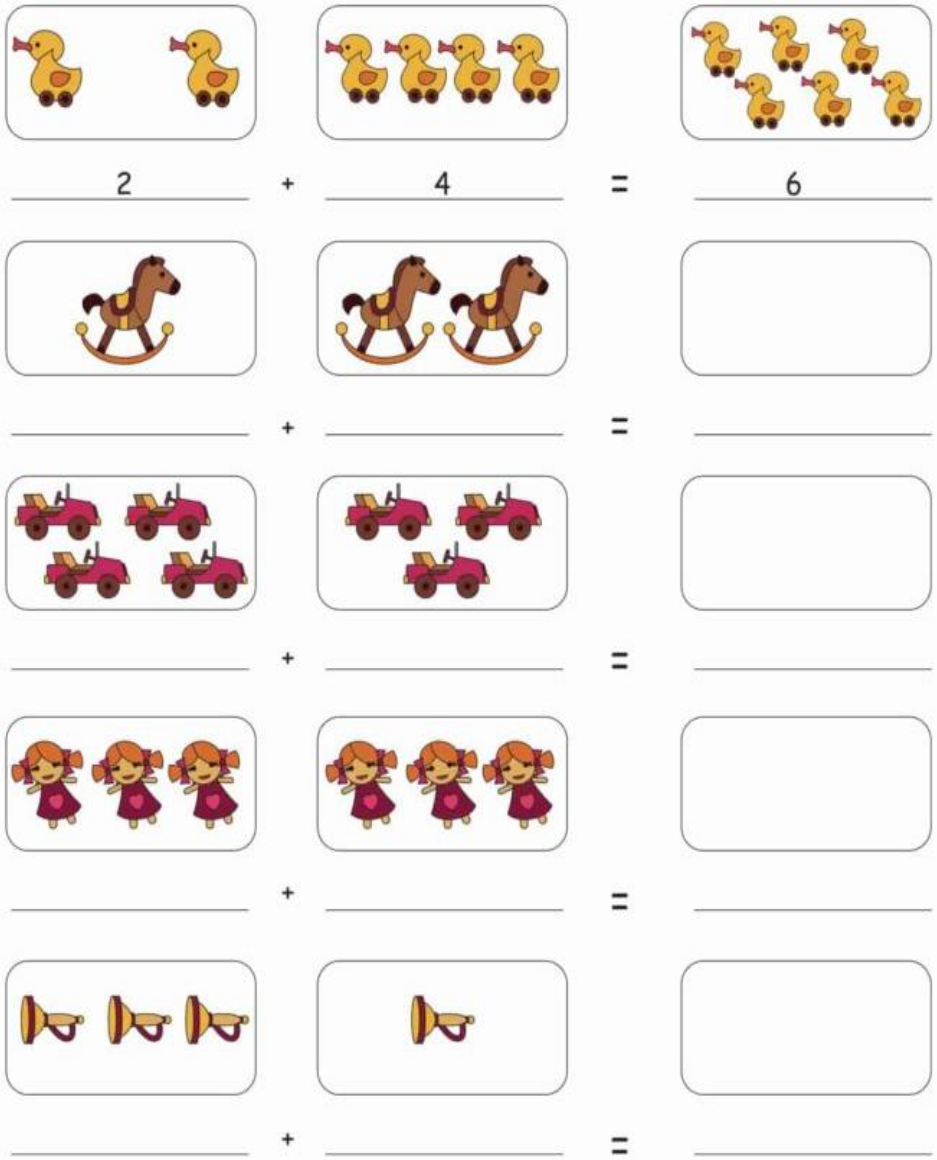

2 + 4 = 6

____ + ____ = ____

____ + ____ = ____

____ + ____ = ____

____ + ____ = ____

OBSERVAR A EMBALAGEM E **COMPLETAR** A FICHA COM AS INFORMAÇÕES SOLICITADAS ,REFERENTES AO PRODUTO QUE VOCÊ **RECEBEU** DE SUA **PROFESSORA**.

➢QUAL O **NOME** DO **PRODUTO?**

_____

➢ ESSE **PRODUTO** E **UTILIZADO** EM:

( ) ALIMENTAÇÃO ( ) HIGIENE E LIMPEZA

➢ QUAL **LETRA** QUE **INICIA?** _____

➢QUAL É A **ÚLTIMA LETRA?** _____

➢**QUANTAS LETRAS** TEM? _____

RISQUE AS FIGURAS CUJOS NOMES COMEÇAM COM AS LETRAS DO QUADRADINHOS.



PINTE NAS CORES QUE SE PEDE:

AGORA CONTE QUANTAS PEÇAS HÁ EM CADA FIGURA E REGISTRE AO LADO

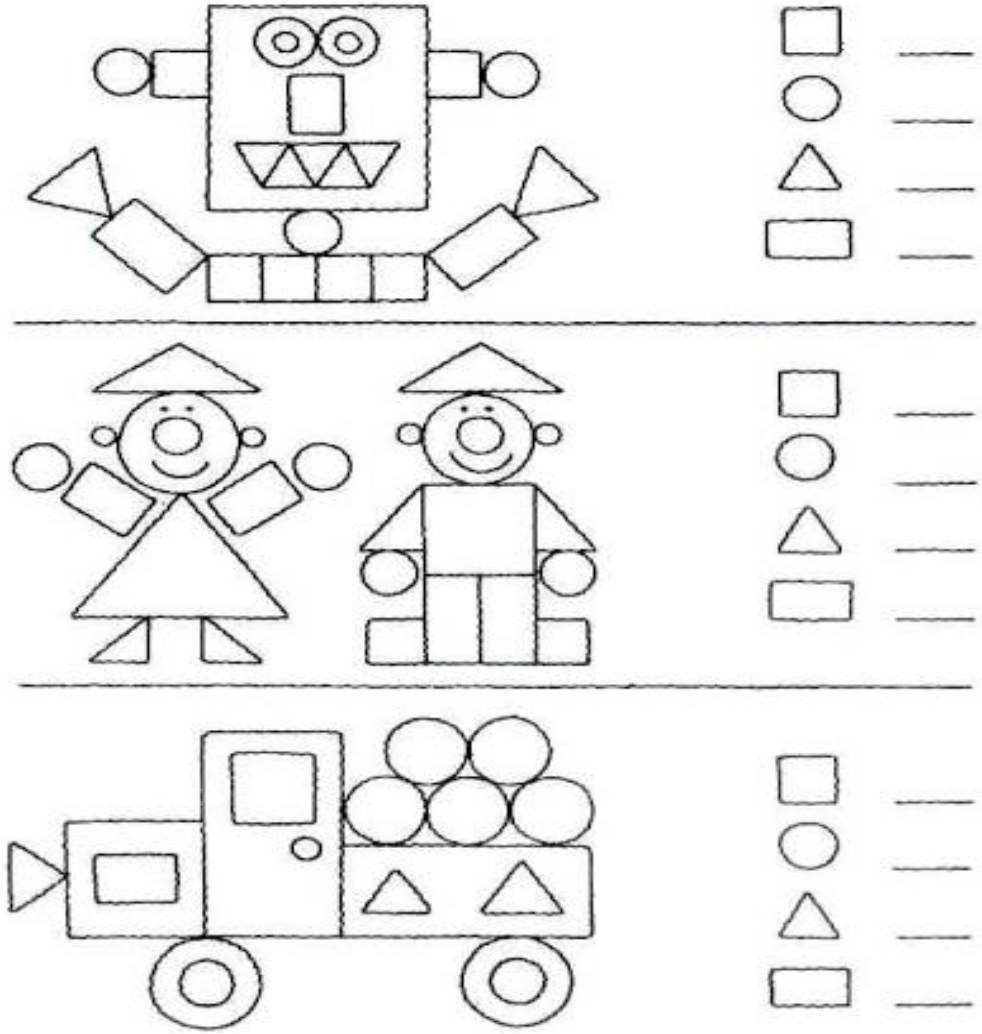

PINTE AS VOGAIS QUE APARECEM NAS PALAVRAS ABAIXO E AS REESCREVA.



CASTELO



BALEIA

BAÚ



PEIXE

ESCOLA:_____

TURMA: _____ **PROFESSOR(A):**_____

EU SOU:_____

1- COMPLETE A SEQUÊNCIA NUMÉRICA NAS MINHOQUINHAS.



A ARTE DE ENSINAR E APRENDER